Протокол муниципального этапа Всероссийской олимпиады школьников в РС(Я)
Район/Улус: Нюрбинский
Предмет: технология
Класс: 8
Дата проведения: 15 ноября 2019

№	Фамилия	Имя	Отчество	Пол	Дата рождения	Наличия гражданства РФ	Район	Полное название общеобразовательного учреждения по уставу	Уровень (класс) обучения	Ограниченные возможности здоровья (имеются/не имеются)	Тип диплома	теория	Моделирование	Практика	Проект	Результат (балл)	ФИО учителя
1	Спиридонова	Дина	Дмитриевна	ж	26.05.2005	Россия	Нюрбинский	муниципальное бюджетное общеобразовательное учреждение «Малыкайская средняя общеобразовательная школа им. М.В. Мегежекского» муниципального района "Нюрбинский район" Республики Саха (Якутия)	8	не имеются	победитель	11	18	16	50	105	Ушканова Александра Анатольевна
2	Федорова	Сайаана	Прокопьевна	ж	10.03.2006	Россия	Нюрбинский	муниципальное бюджетное общеобразовательное учреждение «Нюрбинская средняя общеобразовательная школа №1 имени Степана Васильева» (с углубленным изучением отдельных предметов) Нюрбинского района Республики Саха (Якутия)	8	не имеются	призер	16	2	12	45	75	Терехова Лидия Михайловна
3	Андреева	Влада	Владимировна	ж	16.06.2005	Россия	Нюрбинский	муниципальное бюджетное общеобразовательное учреждение «Мархинская средняя общеобразовательная школа имени К.Д.Уткина» муниципального района "Нюрбинский район"	8	не имеются	призер	15	5	5	25	50	Алексеева Мария Александровна
4	Васильева	Любамира	Алексеевна	ж	20.12.2005	Россия	Нюрбинский	муниципальное бюджетное общеобразовательное учреждение «Хатынская средняя общеобразовательная школа имени Н.И. Прокопьева» муниципального района "Нюрбинский район" Республики Саха (Якутия)	8	не имеются	участник	11.5	3	5	20	39.5	Ефремова Анна Ивановна
5	Апросимова	Дайаана	Васильевна	ж	09.09.2005	Россия	Нюрбинский	муниципальное бюджетное общеобразовательное учреждение «Нюрбинский технический лицей имени А.Н. Чусовского» Нюрбинского района Республики Саха (Якутия)	8	не имеются	участник	5.5	0	4	30	39.5	Васильева Нюргуяна Николаевна
6	Иванова	Виолетта	Марковна	ж	10.06.2006	Россия	Нюрбинский	муниципальное бюджетное общеобразовательное учреждение «1 Кангаласская средняя общеобразовательная школа имени Николая Иннокентьевича Кочнева» муниципального района "Нюрбинский район" Республики Саха (Якутия)	8	не имеются	участник	7.5	0	8	20	35.5	Алексеева Людмила Николаевна
7	Соловьева	Алена	Аркадьевна	ж	20.04.2005	Россия	Нюрбинский	муниципальное бюджетное общеобразовательное учреждение «Жарханская средняя общеобразовательная школа» муниципального района "Нюрбинский район" Республики Саха (Якутия)	8	не имеются	участник	5	0	5	15	25	Васильева Дария Алексеевна

Федор / Федорова М.А /

118

Шифр участника Т-8-3

Муниципальный этап всероссийской олимпиады школьников по технологии
2019-2020 учебный год
«Культура дома и декоративно-прикладное искусство»
8-9 класс
Задания теоретического конкурса

1. В Древнем Египте этот овощ был обязательным компонентом меню рабов. Его добавляли к похлебке в профилактических целях. «Главных обитателей пирамид» – фараонов, полагалось хоронить с этим овощем. Считалось, что он может пригодиться по дороге в загробный мир. В Средние века он пользовался не меньшим уважением. Рыцари, трубадуры, знатные дамы и простые крестьянки непременно носили его с собой чтобы защититься от дурного глаза и прочей нечисти. Спустя столетия ученым удалось найти объяснение лечебным свойствам этого овоща. Своей полезностью он прежде всего обязан веществу под названием аллиин, именно он придает овощу остроту и специфический запах. Сам по себе аллиин не приносит организму особой пользы. Но как только вы начинаете резать, давить или жевать его, аллиин превращается в аллицин – природный антибиотик. Аллицин способен справиться с воспалениями, подавить размножение болезнетворных бактерий, повысить иммунитет и защитить от вирусов и инфекций.
О каком овоще идет речь? чеснок

1 б

2. **Назовите вид тепловой обработки.** тушение - это приготовление пищи в небольшом количестве жидкости (воды, бульона) чуть ниже точки кипения в плотно закрытой посуде. При таком способе готовки максимально сохраняются вкусовые и питательные свойства продуктов.

3. Отметьте знаком «+» все правильные варианты ответов.
Из пшеничной крупы получают:
а) пшено;
б) полтавскую крупу;
в) овсяные хлопья; +
г) манную крупу.

4. Впишите ответ.
Различные виды продуктов обрабатывают на отдельных разделочных досках. Доски различают по буквенным обозначениям. Что означает буквенное обозначение на ребре доски НХ?
Ответ: _____

5. Какая технология имеет отношение к технологиям приготовления пищи?
а) 3D-печать;
б) фудпейринг; +
в) «умный дом».

1 б

6. Название_____(от лат. *crinis*, волос, и *linum*, лён) — изначально жёсткая льняная или хлопковая ткань с основой из конских волос, позднее — жёсткая структура, предназначенная для придания юбке требуемой формы.

7. В современных технологиях широко используется приём, называемый биомиметикой, суть которого состоит в том, чтобы «подсмотреть» и повторить успешное решение проблемы, которое использует сама природа. Так была получена застёжка, принцип действия которой заимствован у репейника. Как она называется? потайная застежка

8. Схемы каких ткацких переплетений показаны на рисунке?

а) 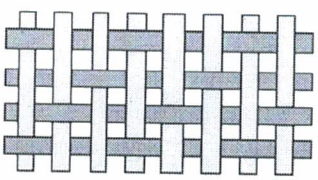 б) 

Ответ: а) тканая б) ~~переплетённая~~

9. Закончи предложение: Сырьем для получения натурального волокна животного происхождения являются ~~хлоп~~ лён и шерсть 0,5б

10. Какие волокна не относятся к синтетическим (выберите несколько вариантов ответов)?

а) акрил; +
б) вискоза; +
в) ацетат;
г) нейлон;
д) эластан.

0,5б

11. Восстановите последовательность символов, вписав рядом с цифрой соответствующую букву.

1. г +	а) Не отпаривать
2. б +	б) Гладить при высокой температуре до 200С
3. а +	в) Гладить при средней температуре до 150С
4. в +	г) Можно гладить

18

12. Какая машинная операция показана на фотографии?



Ответ:

_____

13.Внимательно рассмотрите рисунок. Какие машинные швы показаны на рисунке?

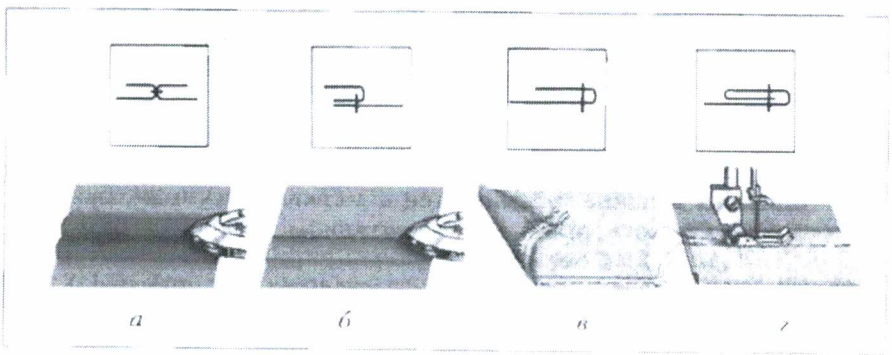

Ответ:

а) разутюжка

б) заутюжка

в) строчка

г) двойная строчка.

14. Для обметывания срезов деталей из сильноосыпающихся тканей выбирают зигзагообразную строчку:

а) с большой шириной стежка и малой длиной стежка;

б) с большой шириной стежка и большой длиной стежка;

в) с маленькой шириной стежка и большой длиной стежка;

г) с маленькой шириной стежка и маленькой длиной стежка. +

15. Определите и подпишите названия представленных ниже вариантов складок на юбке.

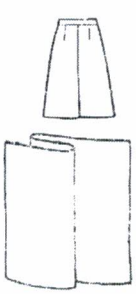

а)_____

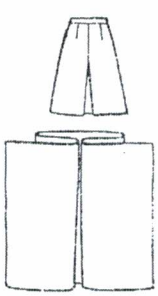

б)_____

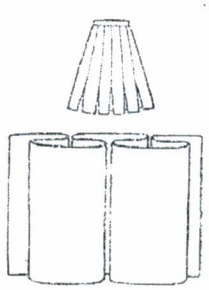

в)_____

16. Какую мерку необходимо учитывать при расчете ширины прямой юбке:
а) Сш б) Ст в) Сб + г) Дтс д) Ди

18

17. Расширение прямой юбки по линии низа может быть выполнено:
а) увеличением ширины заднего полотнища
б) увеличением ширины переднего полотнища
в) закрытием вытачек по линии талии
г) дополнительными разрезами

18. Технику, в которой выполнена эта работа порой называют живописью на ткани. Известна она с глубокой древности и каждый народ привнёс в неё свои неповторимые особенности. Как называется данная техника?
Ответ: вышивка



19. Умеренный полив комнатных растений – это полив:
а) каждый день;
б) через день-два;
в) раз в неделю;
г) раз в месяц. +

20. Какие комнатные растения можно использовать в лечебных целях?
а) алоэ +
б) диффенбахия;
в) каланхоэ;
г) плющ;
д) герань.

21. Какие современные напольные покрытия вы знаете? Запишите три из них.
Ответ: паркет, ~~ламинат~~ линолеум, ламинат.

18

22. Как называется горизонтальная декоративная драпировка, расположенная в верхней части шторной композиции, проёма окна или двери в виде короткого декоративного элемента во всю ширину карниза?
Ответ: _____

23. Для комфортного проживания интерьер комнаты зонируется. Посмотрите внимательно на проект комнаты. На какие зоны комната девочки поделена?
На спальную и гостиную зоны.



24. Вставьте пропущенное слово, выбрав его из представленного ниже списка.
Под «умным» домом следует понимать систему, которая обеспечивает безопасность, ресурсосбережение и комфорт для всех пользователей.
Слова для выбора: стабильность, надежность, безопасность, эстетичность.

1 б

25. Творческое задание.
Даны детали кроя юбки.
1. Проставьте номера на деталях кроя. В соответствии с номерами подпишите названия и количество деталей кроя.
2. Выполните эскиз модели в соответствии с деталями кроя.
3. Опишите внешний вид модели по предложенной форме.
1. Детали кроя

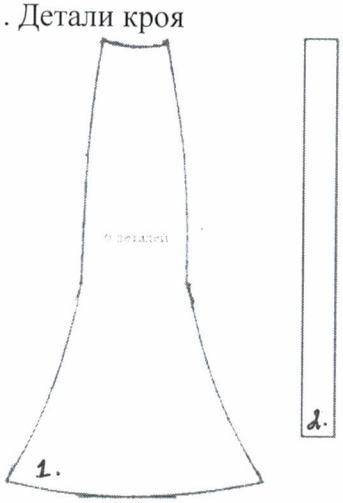

3. Юбка верхняя часть которой обтягает таз, а уже к низу расширяется. Фасон этой юбки очень похож на „русалочий фасон". Имеется один пояс. Основная часть, полотнище состоит из 6 отдельных деталей.

4 б.

1 - полотнище 6 деталей
2 - пояс 1 деталь

3 б

2. Эскиз

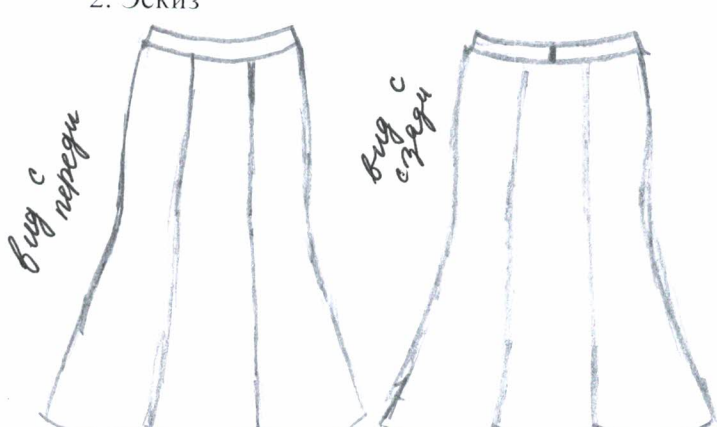

4 б

188

Шифр участника Т-8-3

Муниципальный этап всероссийской олимпиады школьников по технологии
2019-2020 учебный год
«Культура дома и декоративно-прикладное искусство»
8-9 класс
Практическое задание по моделированию

Задание:

1. Внимательно прочитайте описание модели и рассмотрите эскиз.
2. Найдите различия с базовой конструкцией юбки (см. «Чертеж основы прямой юбки»).
3. В соответствии с эскизом нанесите новые фасонные линии и обозначьте ваши действия по моделированию на чертеже основы юбки (см. «Контроль практического задания»). Используйте для этого стрелки, значки, список, алгоритм действий и т. д.
4. Перенесите линии фасона на шаблон из цветной бумаги.
5. Изготовьте из цветной бумаги детали выкройки для раскладки на ткань.
6. Аккуратно наклейте детали выкройки на лист «Результаты моделирования».
7. Нанесите на детали выкройки необходимые надписи для раскроя.

Эскиз	Описание модели
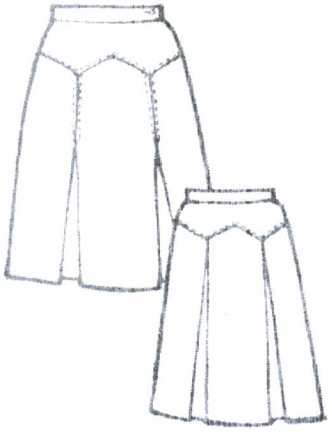	Юбка из шерстяной ткани незначительно расширенная к низу, выкроенная по долевой нити. Переднее и заднее полотнище оформлены фигурной «М»-образной кокеткой. С начала углов кокетки на заднем и переднем полотнище юбки заложены встречные складки. Средний шов на заднем полотнище отсутствует. Линия талии оформлена притачным поясом. Застежка «молния» находится в левом боковом шве.

Шифр участника Т-8-3

Чертеж основы прямой юбки

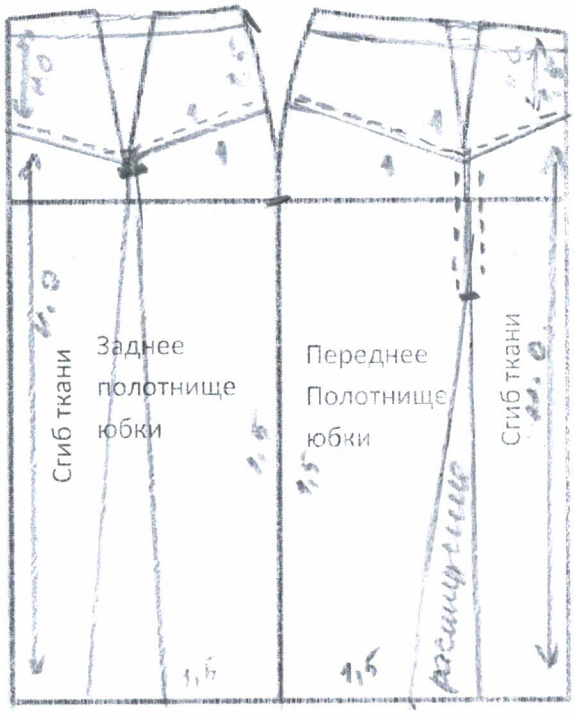

Контроль практического задания

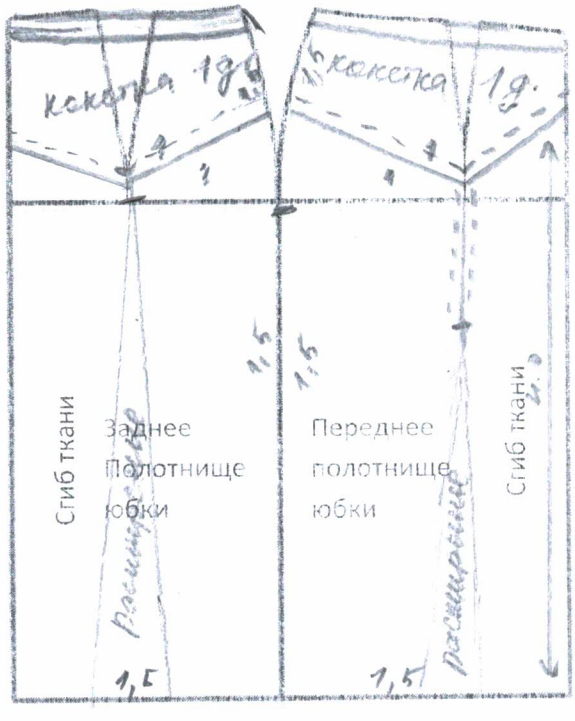

2
2
2
2
3

11 б

Шифр участника Т-8-Э

Результаты моделирования

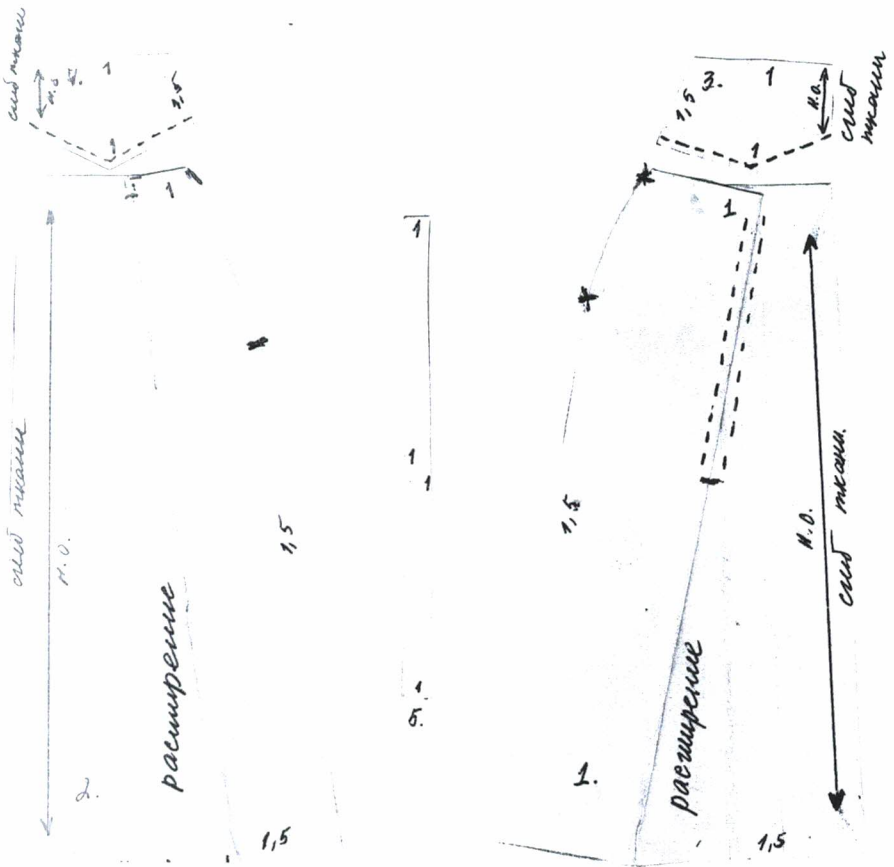

1. Передняя полотнище – 1 деталь
2. Задняя полотнище – 1 деталь
3. кокетка перед. полот. – 1 деталь
4. кокетка зад. полот. – 1 деталь
5. пояс – 2 детали.

1
1
1
1
3

16 бал

Шифр участника Т-8-3

...иады школьников по

...скусство»

...ых изделий

...и практичные, ...также они могут ...ми руками.

...ания

...рическое изображение

п/п		
1	В... сделайте ... - Круг диаметром 18 см.	*...сто для Вашего предварительного эскиза*
2	Раскроить детали прихватки: - 2 круга диаметром 18 см из основной ткани - 2 круга диаметром 18 см из клеевого материала - 1 круг диаметром 18 см из синтепона.	



Карта пооперационного контроля
Изготовление прихватки из ткани

№ п/п	Критерии оценки	Количество баллов	По факту
1	Аккуратное и грамотное выполнение раскроя	1	1
2	Размеры прихватки в готовом виде: диаметр 18 мм±1 мм	2	2
3	Сохранение формы круга	2	2
4	Качественное выполнение стежки	3	2
5	Ширина окантовки 5 мм -7мм	2	1
6	Ширина строчки по краю окантовки 1мм-2мм	2	1
7	Наличие петельки для вешалки	2	2
8	Дизайн прихватки (цветовая гамма ниток,ткани)	1	1
9	Качество влажно-тепловой обработки	2	2
10	Аккуратность выполненной работы да/нет	3	2
	Итого	**20**	

16

16 бал

Шифр участника Т-8-4

Муниципальный этап всероссийской олимпиады школьников по технологии
2019-2020 учебный год
«Культура дома и декоративно-прикладное искусство»
8-9 класс
Задания теоретического конкурса

1. В Древнем Египте этот овощ был обязательным компонентом меню рабов. Его добавляли к похлебке в профилактических целях. «Главных обитателей пирамид» – фараонов, полагалось хоронить с этим овощем. Считалось, что он может пригодиться по дороге в загробный мир. В Средние века он пользовался не меньшим уважением. Рыцари, трубадуры, знатные дамы и простые крестьянки непременно носили его с собой чтобы защититься от дурного глаза и прочей нечисти. Спустя столетия ученым удалось найти объяснение лечебным свойствам этого овоща. Своей полезностью он прежде всего обязан веществу под названием аллиин, именно он придает овощу остроту и специфический запах. Сам по себе аллиин не приносит организму особой пользы. Но как только вы начинаете резать, давить или жевать его, аллиин превращается в аллицин – природный антибиотик. Аллицин способен справиться с воспалениями, подавить размножение болезнетворных бактерий, повысить иммунитет и защитить от вирусов и инфекций.
О каком овоще идет речь? Чеснок + 1б

2. **Назовите вид тепловой обработки.** Варка - это приготовление пищи в небольшом количестве жидкости (воды, бульона) чуть ниже точки кипения в плотно закрытой посуде. При таком способе готовки максимально сохраняются вкусовые и питательные свойства продуктов.

3. Отметьте знаком «+» все правильные варианты ответов.
Из пшеничной крупы получают:
а) пшено; +
б) полтавскую крупу;
в) овсяные хлопья; +
г) манную крупу.

4. Впишите ответ.
Различные виды продуктов обрабатывают на отдельных разделочных досках. Доски различаются буквенным обозначениям. Что означает буквенное обозначение на ребре доски Х?
Ответ. Нарезание хлеба + 1б

5. Какая технология имеет отношение к технологиям приготовления пищи?
а) 3D-печать;
б) фудпейринг;
в) «умный дом».

+1б

7,5 б

6. Название Подюбник (от лат. *crinis*, волос, и *linum*, лён) — изначально жёсткая льняная или хлопковая ткань с основой из конских волос, позднее — жёсткая структура, предназначенная для придания юбке требуемой формы.



7. В современных технологиях широко используется приём, называемый биомиметикой, суть которого состоит в том, чтобы «подсмотреть» и повторить успешное решение проблемы, которое использует сама природа. Так была получена застёжка, принцип действия которой заимствован у репейника. Как она называется? _____

8. Схемы каких ткацких переплетений показаны на рисунке?

а) 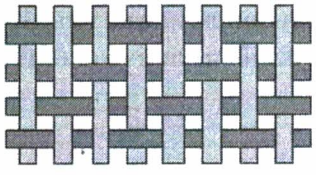 б) 

Ответ: Перекрестное переплетение

9. Закончи предложение: Сырьем для получения натурального волокна животного происхождения являются _____ и _____

10. Какие волокна не относятся к синтетическим (выберите несколько вариантов ответов)?

а) акрил;
б) вискоза;
в) ацетат; + 0,5
г) нейлон; +
д) эластан. +

11. Восстановите последовательность символов, вписав рядом с цифрой соответствующую букву.

1.	а) Не отпаривать
2.	б) Гладить при высокой температуре до 200С
3.	в) Гладить при средней температуре до 150С
4.	г) Можно гладить

+ 18

12. Какая машинная операция показана на фотографии?



Ответ: вшивание тесьмы

13.Внимательно рассмотрите рисунок. Какие машинные швы показаны на рисунке?

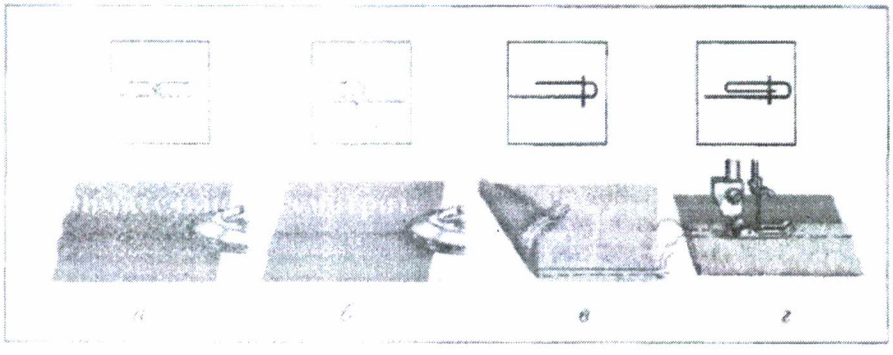

Ответ:
а) _____
б) _____
в) _____
г) _____

14. Для обметывания срезов деталей из сильноосыпающихся тканей выбирают зигзагообразную строчку:
а) с большой шириной стежка и малой длиной стежка;
б) с большой шириной стежка и большой длиной стежка;
в) с маленькой шириной стежка и большой длиной стежка;
г) с маленькой шириной стежка и маленькой длиной стежка.

15. Определите и подпишите названия представленных ниже вариантов складок на юбке.



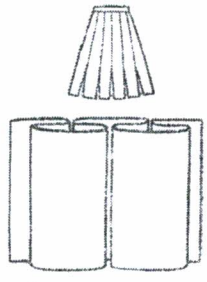

а) односторонняя складка б) ~~складка~~ книжная ~~встречная~~. в) двустворчатая складка.

встречная складка +

0,5

16. Какую мерку необходимо учитывать при расчете ширины прямой юбке:
а) Сш б) Ст в) Сб г) Дтс д) Дт

+ 1б

17. Расширение прямой юбки по линии низа может быть выполнено:
а) увеличением ширины заднего полотнища
б) увеличением ширины переднего полотнища
в) закрытием вытачек по линии талии
г) дополнительными разрезами

18. Технику, в которой выполнена эта работа порой называют живописью на ткани. Известна она с глубокой древности и каждый народ привнёс в неё свои неповторимые особенности. Как называется данная техника?
Ответ: Вышивка

19. Умеренный полив комнатных растений – это полив:
а) каждый день;
б) через день-два;
в) раз в неделю;
г) раз в месяц.

+ 1б

20. Какие комнатные растения можно использовать в лечебных целях?
а) алоэ +
б) диффенбахия;
в) каланхоэ;
г) плющ;
д) герань. +

0,5б

21. Какие современные напольные покрытия вы знаете? Запишите три из них.
Ответ: ~~ламинат, линолеум, ковер~~ 0,5

1б

22. Как называется горизонтальная декоративная драпировка, расположенная в верхней части шторной композиции, проёма окна или двери в виде короткого декоративного элемента во всю ширину карниза?
Ответ: _____

23. Для комфортного проживания интерьер комнаты зонируется. Посмотрите внимательно на проект комнаты. На какие зоны комната девочки поделена?
Рабочая зона отдыха

0,5

24. Вставьте пропущенное слово, выбрав его из представленного ниже списка.
Под «умным» домом следует понимать систему, которая обеспечивает
надежность, ресурсосбережение и комфорт для всех пользователей.
Слова для выбора: стабильность, надежность, безопасность, эстетичность.

25. Творческое задание.
Даны детали кроя юбки.
1. Проставьте номера на деталях кроя. В соответствии с номерами подпишите названия и количество деталей кроя.
2. Выполните эскиз модели в соответствии с деталями кроя.
3. Опишите внешний вид модели по предложенной форме.
1. Детали кроя

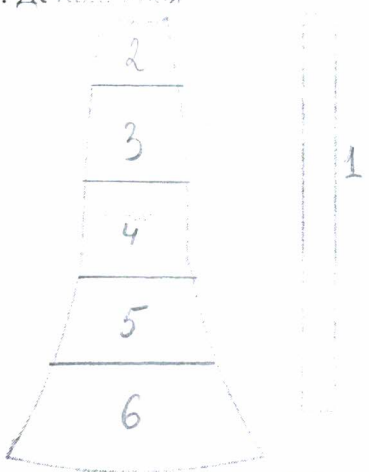

1 - 6 деталей 3б
2 - 0
2. Эскиз: 0 вид спереди

4б

вид сзади

0 7,5

28

Шифр участника Т-8-4

Муниципальный этап всероссийской олимпиады школьников по технологии
2019-2020 учебный год
«Культура дома и декоративно-прикладное искусство»
8-9 класс
Практическое задание по моделированию

Задание:

1. Внимательно прочитайте описание модели и рассмотрите эскиз.
2. Найдите различия с базовой конструкцией юбки (см. «Чертеж основы прямой юбки»).
3. В соответствии с эскизом нанесите новые фасонные линии и обозначьте ваши действия по моделированию на чертеже основы юбки (см. «Контроль практического задания»). Используйте для этого стрелки, значки, список, алгоритм действий и т. д.
4. Перенесите линии фасона на шаблон из цветной бумаги.
5. Изготовьте из цветной бумаги детали выкройки для раскладки на ткань.
6. Аккуратно наклейте детали выкройки на лист «Результаты моделирования».
7. Нанесите на детали выкройки необходимые надписи для раскроя.

Эскиз	Описание модели
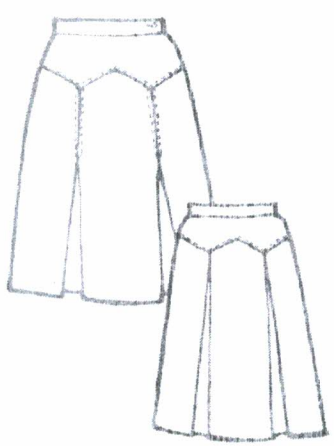	Юбка из шерстяной ткани незначительно расширенная к низу, выкроенная по долевой нити. Переднее и заднее полотнище оформлены фигурной «М»-образной кокеткой. С начала углов кокетки на заднем и переднем полотнище юбки заложены встречные складки. Средний шов на заднем полотнище отсутствует. Линия талии оформлена притачным поясом. Застежка «молния» находится в левом боковом шве.

Шифр участника Т-8-4

Чертеж основы прямой юбки

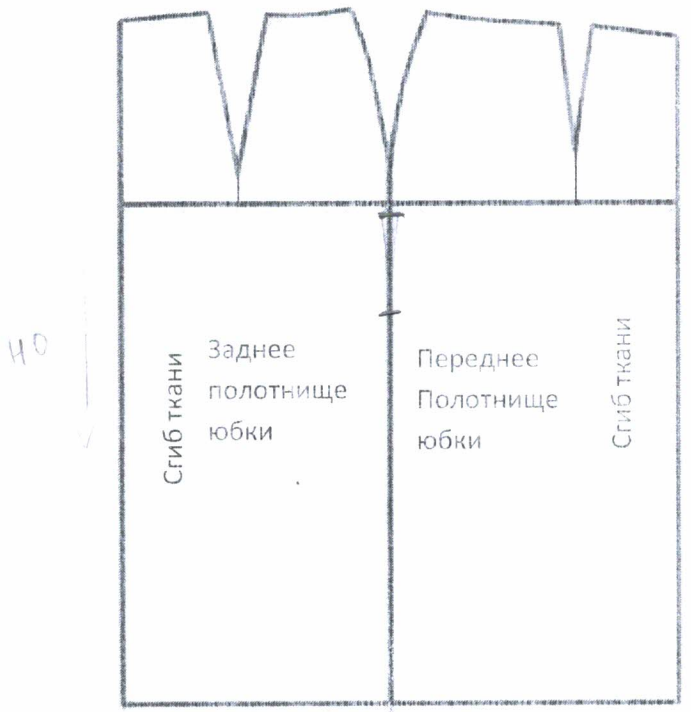

Контроль практического задания

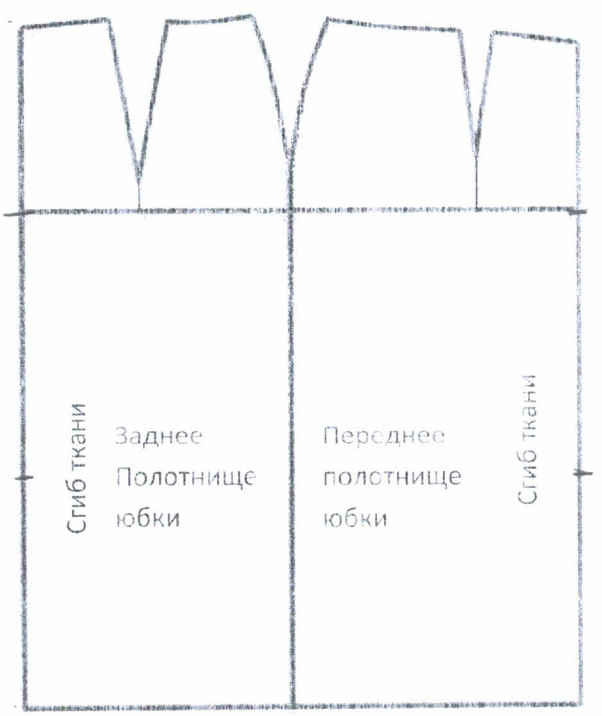

Шифр участника 7-8-4

Результаты моделирования



125

Шифр участника Т-8-4

Муниципальный этап всероссийской олимпиады школьников по технологии

2019-2020 учебный год

декоративно-прикладное искусство»

9 класс

обработки швейных изделий

из ткани

		Материалы
		ажная ткань иал
		ные и практичные, и. Также они могут воими руками.
		адания
		рическое изображение
		о для Вашего предварительного эскиза
2	Раскроить детали прихватки: - 2 круга диаметром 18 см из основной ткани - 2 круга диаметром 18 см из клеевого материала - 1 круг диаметром 18 см из синтепона.	

Карта пооперационного контроля
Изготовление прихватки из ткани

№ п/п	Критерии оценки	Количество баллов	По факту
1	Аккуратное и грамотное выполнение раскроя	1	1
2	Размеры прихватки в готовом виде: диаметр 18 мм±1 мм	2	2
3	Сохранение формы круга	2	2
4	Качественное выполнение стежки	3	1
5	Ширина окантовки 5 мм -7мм	2	—
6	Ширина строчки по краю окантовки 1мм-2мм	2	1
7	Наличие петельки для вешалки	2	2
8	Дизайн прихватки (цветовая гамма ниток,ткани)	1	1
9	Качество влажно-тепловой обработки	2	1
10	Аккуратность выполненной работы да/нет	3	1
	Итого	**20**	12/5

Шифр участника Т-8-7

Муниципальный этап всероссийской олимпиады школьников по технологии
2019-2020 учебный год
«Культура дома и декоративно-прикладное искусство»
8-9 класс
Задания теоретического конкурса

0б **1.** В Древнем Египте этот овощ был обязательным компонентом меню рабов. Его добавляли к похлебке в профилактических целях. «Главных обитателей пирамид» – фараонов, полагалось хоронить с этим овощем. Считалось, что он может пригодиться по дороге в загробный мир. В Средние века он пользовался не меньшим уважением. Рыцари, трубадуры, знатные дамы и простые крестьянки непременно носили его с собой чтобы защититься от дурного глаза и прочей нечисти. Спустя столетия ученым удалось найти объяснение лечебным свойствам этого овоща. Своей полезностью он прежде всего обязан веществу под названием аллиин, именно он придает овощу остроту и специфический запах. Сам по себе аллиин не приносит организму особой пользы. Но как только вы начинаете резать, давить или жевать его, аллиин превращается в аллицин – природный антибиотик. Аллицин способен справиться с воспалениями, подавить размножение болезнетворных бактерий, повысить иммунитет и защитить от вирусов и инфекций.
О каком овоще идет речь? перец

0б 2. **Назовите вид тепловой обработки.** Варка - это приготовление пищи в небольшом количестве жидкости (воды, бульона) чуть ниже точки кипения в плотно закрытой посуде. При таком способе готовки максимально сохраняются вкусовые и питательные свойства продуктов.

3. Отметьте знаком «+» все правильные варианты ответов.
0,5б Из пшеничной крупы получают:
а) пшено;
б) полтавскую крупу;
в) овсяные хлопья;
+г) манную крупу. +

4. Впишите ответ.
0б Различные виды продуктов обрабатывают на отдельных разделочных досках. Доски различают по буквенным обозначениям. Что означает буквенное обозначение на ребре доски НХ?
Ответ: _____

5. Какая технология имеет отношение к технологиям приготовления пищи?
1б а) 3D-печать;
+б) фудшейринг;
в) «умный дом».

15 б

0б

6. Название крисмилам (от лат. *crinis*, волос, и *linum*, лён) — изначально жёсткая льняная или хлопковая ткань с основой из конских волос, позднее — жёсткая структура, предназначенная для придания юбке требуемой формы.

1б

7. В современных технологиях широко используется приём, называемый биомиметикой, суть которого состоит в том, чтобы «подсмотреть» и повторить успешное решение проблемы, которое использует сама природа. Так была получена застёжка, принцип действия которой заимствован у репейника. Как она называется? ду шипучка

0б

8. Схемы каких ткацких переплетений показаны на рисунке?

а)  б) 

Ответ: а) простая. б) многоразовая.

0,5б

9. Закончи предложение: Сырьем для получения натурального волокна животного происхождения являются мех и шерсть.

0,5б

10. Какие волокна не относятся к синтетическим (выберите несколько вариантов ответов)?

+ а) акрил;
+ б) вискоза;
в) ацетат;
г) нейлон;
+ д) эластан.

1б

11. Восстановите последовательность символов, вписав рядом с цифрой соответствующую букву.

1. г +	а) Не отпаривать
2. б +	б) Гладить при высокой температуре до 200С
3. а +	в) Гладить при средней температуре до 150С
4. в +	г) Можно гладить

0б

12. Какая машинная операция показана на фотографии?



Ответ:
отпарка

13.Внимательно рассмотрите рисунок. Какие машинные швы показаны на рисунке?

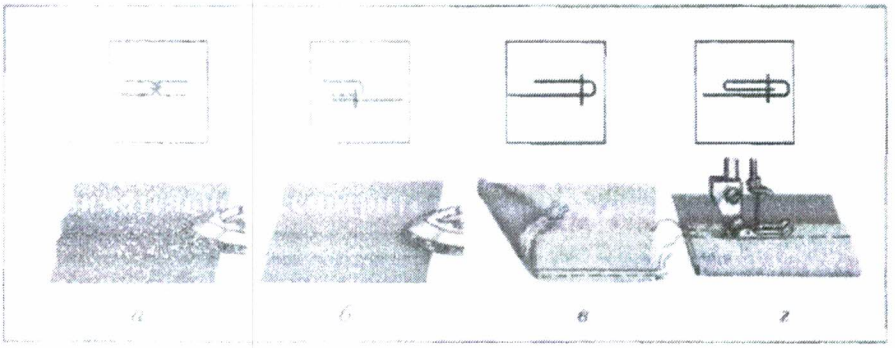

0б

Ответ:
а) приутюживание
б) заутюживание
в) отпарка
г) вытачка

0б

14. Для обметывания срезов деталей из сильноосыпающихся тканей выбирают зигзагообразную строчку:
а) с большой шириной стежка и малой длиной стежка;
б) с большой шириной стежка и большой длиной стежка;
+в) с маленькой шириной стежка и большой длиной стежка;
г) с маленькой шириной стежка и маленькой длиной стежка.

0,5б

15. Определите и подпишите названия представленных ниже вариантов складок на юбке.

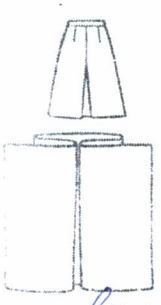

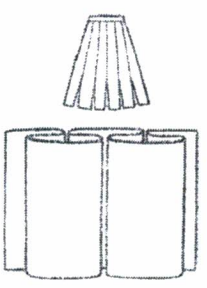

а) односторонняя складка
б) ~~двойная~~ встречная складка
в) _____

+ − +

16

16. Какую мерку необходимо учитывать при расчете ширины прямой юбке:
а) Сш б) Ст +в) Сб г) Дтс д) Дп

06

17. Расширение прямой юбки по линии низа может быть выполнено:
а) увеличением ширины заднего полотнища
б) увеличением ширины переднего полотнища
в) закрытием вытачек по линии талии
+г) дополнительными разрезами

05

18. Технику, в которой выполнена эта работа порой называют живописью на ткани. Известна она с глубокой древности и каждый народ привнёс в неё свои неповторимые особенности. Как называется данная техника?
Ответ: батик



16

19. Умеренный полив комнатных растений – это полив:
а) каждый день;
+б) через день-два;
в) раз в неделю;
г) раз в месяц.

06

20. Какие комнатные растения можно использовать в лечебных целях?
+а) алоэ
б) диффенбахия;
в) каланхоэ;
г) плющ;
д) герань.

06

21. Какие современные напольные покрытия вы знаете? Запишите три из них.
Ответ: ламинат

06

22. Как называется горизонтальная декоративная драпировка, расположенная в верхней части шторной композиции, проёма окна или двери в виде короткого декоративного элемента во всю ширину карниза?
Ответ: _____

16

23. Для комфортного проживания интерьер комнаты зонируется. Посмотрите внимательно на проект комнаты. На какие зоны комната девочки поделена?
зона отдыха, зона для учебы, зона для сна

0б

24. Вставьте пропущенное слово, выбрав его из представленного ниже списка.
Под «умным» домом следует понимать систему, которая обеспечивает
_____надежность_____, ресурсосбережение и комфорт для всех пользователей.
Слова для выбора: стабильность, надежность, безопасность, эстетичность.

25. Творческое задание.
Даны детали кроя юбки.
1. Проставьте номера на деталях кроя. В соответствии с номерами подпишите названия и количество деталей кроя.
2. Выполните эскиз модели в соответствии с деталями кроя.
3. Опишите внешний вид модели по предложенной форме.
1. Детали кроя



2



4б

1 - 1-пояс (1деталь), 2-6 деталей, полотнища
2 - _____
2. Эскиз

3б

58

Шифр участника Т-8-7

Муниципальный этап всероссийской олимпиады школьников по технологии
2019-2020 учебный год
«Культура дома и декоративно-прикладное искусство»
8-9 класс
Практическое задание по моделированию

Задание:

1. Внимательно прочитайте описание модели и рассмотрите эскиз.
2. Найдите различия с базовой конструкцией юбки (см. «Чертеж основы прямой юбки»).
3. В соответствии с эскизом нанесите новые фасонные линии и обозначьте вани действия по моделированию на чертеже основы юбки (см. «Контроль практического задания»). Используйте для этого стрелки, значки, список, алгоритм действий и т. д.
4. Перенесите линии фасона на шаблон из цветной бумаги.
5. Изготовьте из цветной бумаги детали выкройки для раскладки на ткань.
6. Аккуратно наклейте детали выкройки на лист «Результаты моделирования».
7. Нанесите на детали выкройки необходимые надписи для раскроя.

Эскиз	Описание модели
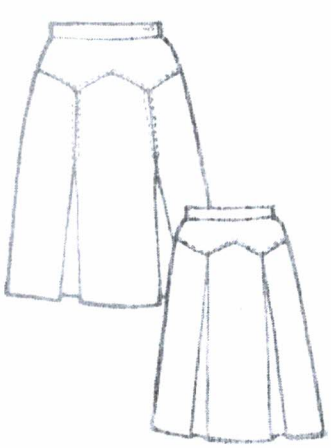	Юбка из шерстяной ткани незначительно расширенная к низу, выкроенная по долевой нити. Переднее и заднее полотнище оформлены фигурной «М»-образной кокеткой. С начала углов кокетки на заднем и переднем полотнище юбки заложены встречные складки. Средний шов на заднем полотнище отсутствует. Линия талии оформлена притачным поясом. Застежка «молния» находится в левом боковом шве.

Шифр участника Т-8-7

Чертеж основы прямой юбки

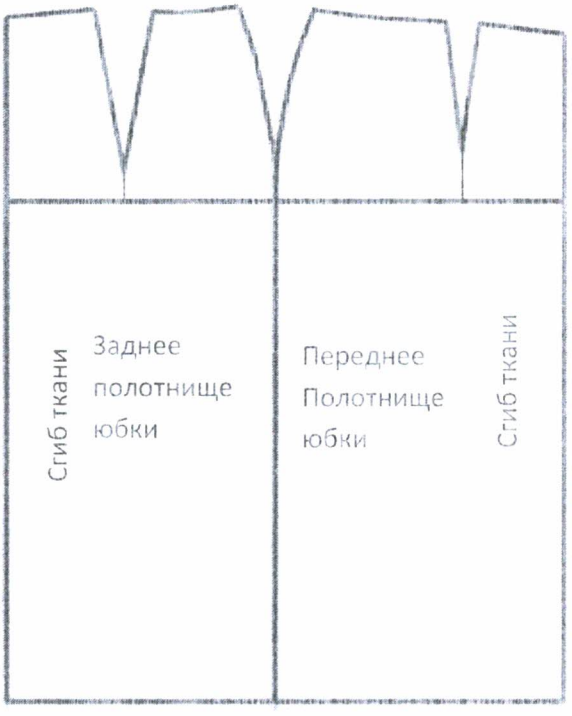

Контроль практического задания

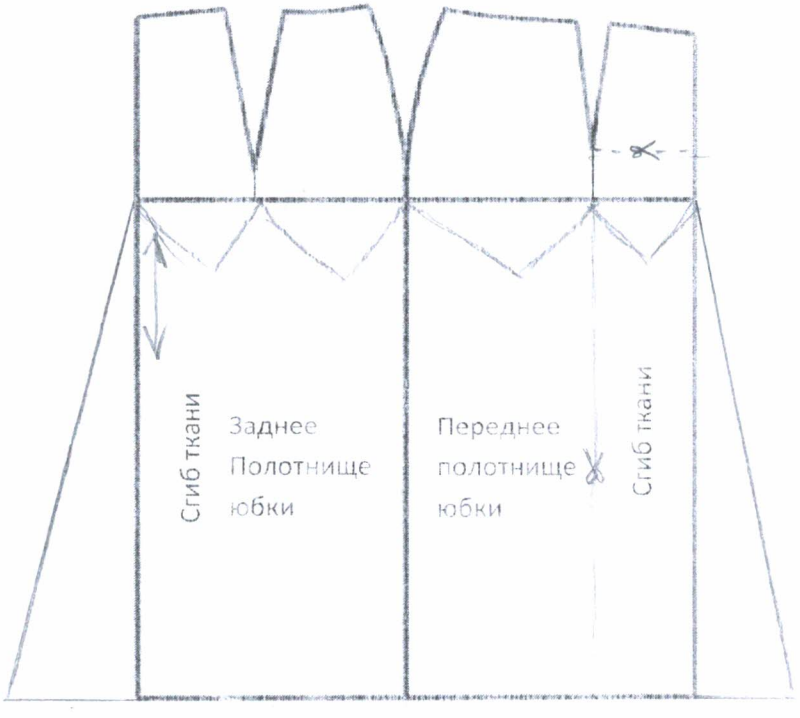

1

Шифр участника Т-8-7

Результаты моделирования



$\frac{1}{\frac{1}{2}}$

58

Шифр участника Т-8-7

...й олимпиады школьников по

...е искусство»

...ных изделий

...практичные,
...ни могут

Графическое ...жение

№ п/п		
1	Выполните ... и сделайте выкройку - Круг диаметром 18 см.	*Место для Вашего предварительного эскиза*
2	Раскроить детали прихватки: - 2 круга диаметром 18 см из основной ткани - 2 круга диаметром 18 см из клеевого материала - 1 круг диаметром 18 см из синтепона.	

Карта пооперационного контроля
Изготовление прихватки из ткани

№ п/п	Критерии оценки	Количество баллов	По факту
1	Аккуратное и грамотное выполнение раскроя	1	1
2	Размеры прихватки в готовом виде: диаметр 18 мм±1 мм	2	1
3	Сохранение формы круга	2	1
4	Качественное выполнение стежки	3	1
5	Ширина окантовки 5 мм -7мм	2	—
6	Ширина строчки по краю окантовки 1мм-2мм	2	—
7	Наличие петельки для вешалки	2	—
8	Дизайн прихватки (цветовая гамма ниток,ткани)	1	1
9	Качество влажно-тепловой обработки	2	—
10	Аккуратность выполненной работы да/нет	3	—
	Итого	**20**	5 8